Scenariusz zajęć nr 91

Karta pracy nr 1

Polecenie 1:
Rozwiąż zadania oddzielone od siebie rysunkami kwiatów. Pokoloruj i odgadnij ich nazwy, a dowiesz się, jakie rośliny są pod ochroną.

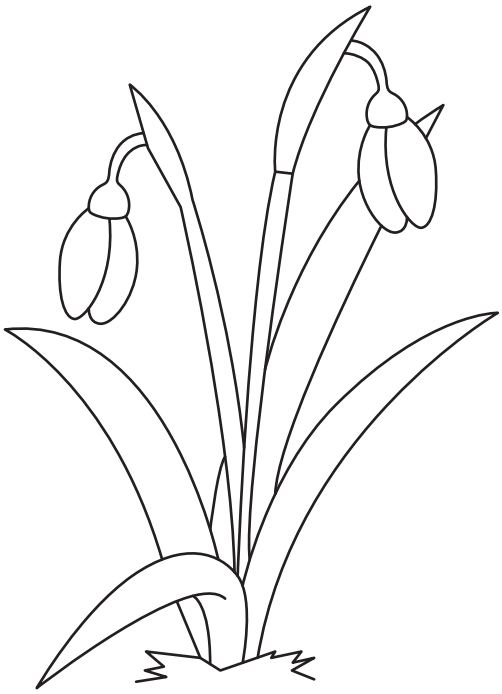

W bibliotece szkolnej można obejrzeć ilustracje, korzystając z atlasów przyrodniczych. W atlasie roślin chronionych znajduje się 30 ilustracji, natomiast w atlasie jest o 15 ilustracji więcej. **Ile ilustracji znajduje się w atlasie?**

Odpowiedź:

.....



Dzieci zagrały w grę komputerową polegającą na zbieraniu tulipanów. Bartek zebrał 66 tulipanów, natomiast Agnieszka zebrała o 22 tulipany mniej.

Ile tulipanów zebrała Agnieszka?

Odpowiedź:

.....



Marysia uwiła wianek z 40 stokrotek, Danusia potrzebowała o 19 stokrotek więcej niż Marysia, a Ewelina o 11 mniej niż Danusia.

Ile kwiatków na zrobienie swojego wianka potrzebowała Ewelina?

Odpowiedź:

.....