Scenariusz nr 11

Zadanie 1
Polecenie: ułóż i zapisz 5 zdań rozkazujących na temat prawidłowego zachowania się na drodze.

Zadanie 2
Polecenie: pomaluj poszczególne światła na sygnalizatorach na odpowiedni kolor.



Stój



Przygotuj się



Idź

Zadanie 3
Oblicz:

4 + 5 = ☐ 7 + 2 = ☐ 9 + 1 = ☐

3 + 5 = ☐ 6 + 4 = ☐ 3 + 4 = ☐