1. Tola ma 7 lat. Brat Toli jest o 8 lat starszy. Oblicz ile lat ma brat Toli. Rozwiąż zadanie i uzupełnij odpowiedź.



☺ Odpowiedź: Brat Toli ma . . . lat.

2. Agata ma 19 lat. Janek jest o 7 lat młodszy. Oblicz ile lat ma Janek. Rozwiąż zadanie i napisz odpowiedź.

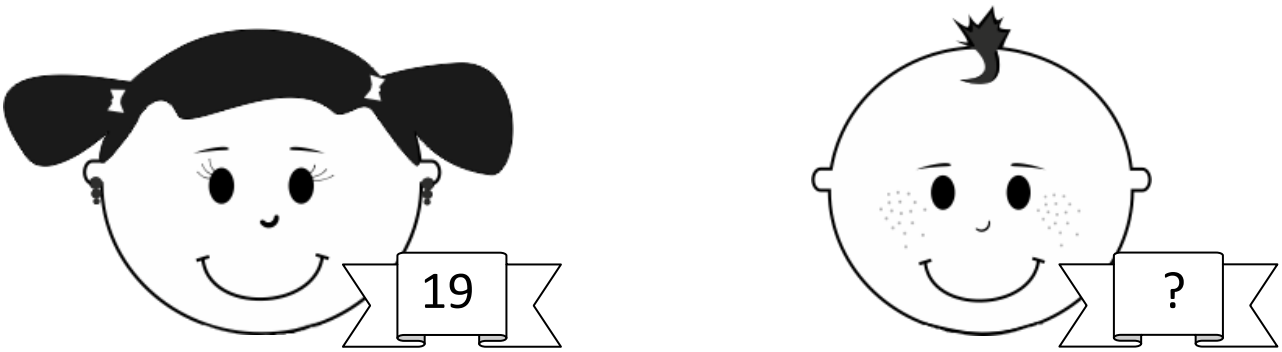

☺ Odpowiedź:

KAPITAŁ LUDZKI NARODOWA STRATEGIA SPÓJNOŚCI
EuroForum
ORE Ośrodek Rozwoju Edukacji
UNIA EUROPEJSKA EUROPEJSKI FUNDUSZ SPOŁECZNY
Projekt współfinansowany przez Unię Europejską w ramach Europejskiego Funduszu Społecznego

3. Ania ma 15 lat, a Jaś ma 12lat. Oblicz, o ile lat Ania jest starsza od Jasia. Rozwiąż zadanie i uzupełnij odpowiedź.





☺ Odpowiedź: Ania jest o . . . lata starsza od Jasia.

4. Staś ma 7 lat, a Marta ma 14 lat. Oblicz, o ile lat Staś jest młodszy od Marty. Rozwiąż zadnie i napisz odpowiedź.



☺ Odpowiedź: